تم تحميل هذا الملف من موقع المناهج الكويتية

almanahj.com/kw

موقع المناهج الكويتية

الملف نماذج اختبار قصير مع نموذج الإجابة
موقع المناهج ⇦ ملفات الكويت التعليمية ⇦ الصف الأول ⇦ رياضيات ⇦ الفصل الأول

روابط مواقع التواصل الاجتماعي بحسب الصف الأول			
روابط مواد الصف الأول على تلغرام			
التربية الاسلامية	اللغة العربية	اللغة الانجليزية	الرياضيات

المزيد من الملفات بحسب الصف الأول والمادة رياضيات في الفصل الأول	
1	تدريبات على كتابة الاعداد من 1 وحتى 10في مادة الرياضيات
2	التصنيف وفق خاصية واحدة في مادة الرياضيات
3	تحضير درس الانماط في مادة الرياضيات
4	تحضير درس التطابق في مادة الرياضيات
5	اوراق عمل متاهات الاعداد في مادة الرياضيات

تحميل تطبيق المناهج للهواتف الذكية	
تطبيق المناهج على App Store (آبل)	تطبيق المناهج على Google Play (أندرويد)

وزارة التربية

الإدارة العامة لمنطقة حولي التعليمية

مراقبة التوجيه الفني للرياضيات

نموذج (جـ) اختبار قصير (١)

في مادة الرياضيات للصف (الأول)

الفصل الدراسي الأول للعام ٢٠٢٦- ٢٠٢٧

السؤال الأول: اكتب رمز العلاقة المناسب > أو < أو = .

أ) ٢ ◯ ٤

ب) ٣ ◯ ٣

السؤال الثاني: .

أ) أكمل .



ب) اكتب رمز العدد .

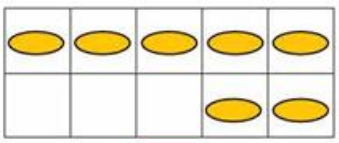

موقع المناهج الكويتية
almanahj.com/kw

السؤال الثالث: اكتب الوقت .

:

السؤال الرابع : .

أ) لون رمز العدد المناسب .

٣ ١ ٢

ب) حوط العدد الممثل .

١٠ ١١ ١٢

١٠ ١١ ١٢

عدد أيام الأسبوع هو :

٧ ٤ ٦

انتهت الأسئلة نتمنى لكم التوفيق ،،،،

وزارة التربية

الإدارة العامة لمنطقة حولي التعليمية

مراقبة التوجيه الفني للرياضيات

نموذج (جـ) اختبار قصير (١)

في مادة الرياضيات للصف (الأول)

الفصل الدراسي الأول للعام ٢٠٢٦- ٢٠٢٧

السؤال الأول: اكتب رمز العلاقة المناسب > أو < أو = .

أ) ٢ < ٤

ب) ٣ = ٣

السؤال الثاني: .

أ) أكمل .



ب) اكتب رمز العدد .

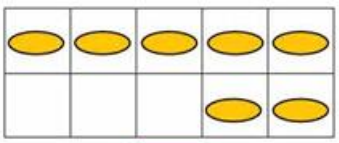

٧

١١

موقع المناهج الكويتية
almanahj.com/kw

السؤال الثالث: اكتب الوقت .

٥ : ٠٠

السؤال الرابع : .

أ) لون رمز العدد المناسب .



٣ ١ ٢

ب) حوط العدد الممثل .

١٠ ١١ ١٢

١٠ ١١ ١٢

عدد أيام الأسبوع هو :

٧ ٤ ٦

انتهت الأسئلة نتمنى لكم التوفيق ،،،،