تم تحميل هذا الملف من موقع المناهج الكويتية

almanahj.com/kw

موقع المناهج الكويتية

التوجيه الفني العام للرياضيات

الملف إجابة الاختبار التحصيلي التجريبي الأول (نموذج 2)
موقع المناهج ⇦ المناهج الكويتية ⇦ الصف الأول ⇦ رياضيات ⇦ الفصل الأول

روابط مواقع التواصل الاجتماعي بحسب الصف الأول

روابط مواد الصف الأول على تلغرام

التربية الاسلامية	اللغة العربية	اللغة الانجليزية	الرياضيات

المزيد من الملفات بحسب الصف الأول والمادة رياضيات في الفصل الأول

1	تدريبات على كتابة الاعداد من 1 وحتى 10في مادة الرياضيات
2	التصنيف وفق خاصية واحدة في مادة الرياضيات
3	اوراق عمل في مادة الرياضيات
4	تحضير درس الانماط في مادة الرياضيات
5	تحضير درس التطابق في مادة الرياضيات

وزارة التربية
الإدارة العامة لمنطقة حولي التعليمية
التوجيه الفني للرياضيات

الاختبار التحصيلي (١) التجريبي
للصف الأول الابتدائي
للفترة الدراسية الأولى
للعام الدراسي ٢٠٢٢ ـ ٢٠٢٣ م

الاسم :.....
الصف:.....

٢٠

السؤال الأول :

أ)عد العناصر.اكتب رمز العدد:

٣







ب) صل لتقارن بين العددين بوضع > أو< أو=:

٣







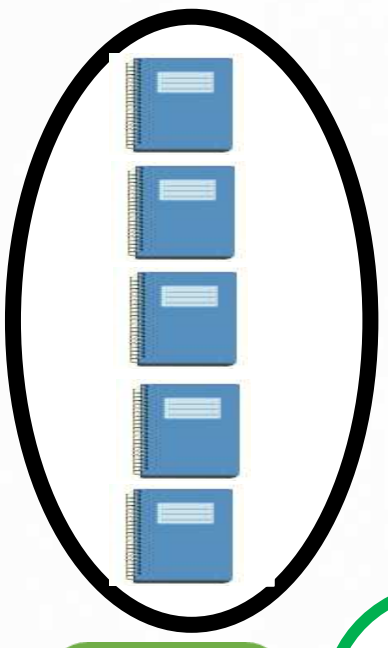

٣ ◯ ٢ ◯ ٤ ◯ ٥

السؤال الثانى :

أ)أكمل :

٢



ب)استكمل رسم العناصر بحسب العدد الموضح رمزه.

٣



٥ ٦

السؤال الثالث :

٢

أ) استخدم لإيجاد طرق مختلفة لتكوين العدد ٤

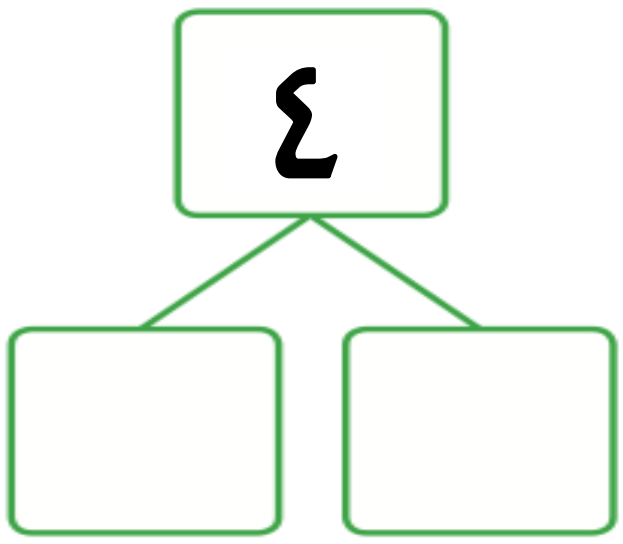

موقع المناهج الكويتية
almanahj.com/kw

ب حوط رمز العدد المناسب .

٢

٣ ٤ ٥



٦ ٥ ٩

السؤال الرابع :

٥

صل كل مجموعة برمز العدد المناسب .

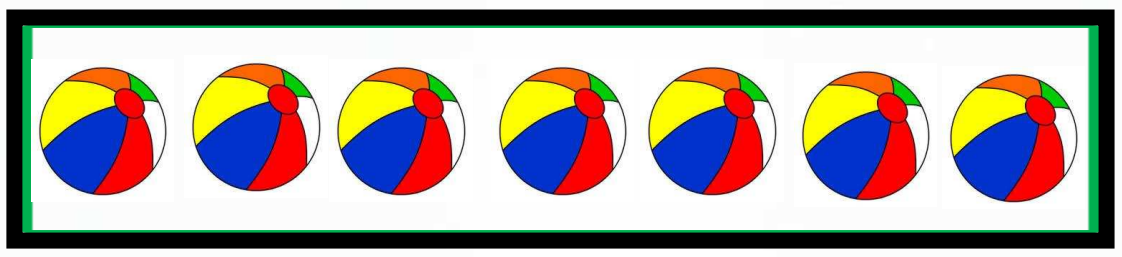







٧

٥

٤

٣

٦

وزارة التربية
الإدارة العامة لمنطقة حولي التعليمية
التوجيه الفني للرياضيات

الاختبار التحصيلي (١) التجريبي
للصف الأول الابتدائي
للفترة الدراسية الأولى
للعام الدراسي ٢٠٢٢ ـ ٢٠٢٣ م

الاسم :.....
الصف:.....

٢٠

السؤال الأول :

أ)عد العناصر.اكتب رمز العدد:

٣



درجة واحدة — ٤ — وحدة الثانية بند ٢-٦



درجة واحدة — ٥ — وحدة الثانية بند ٢-٨



درجة واحدة — ٨ — وحدة الثالثة بند ٣-٤

ب) صل لتقارن بين العددين بوضع > أو< أو=:

٣

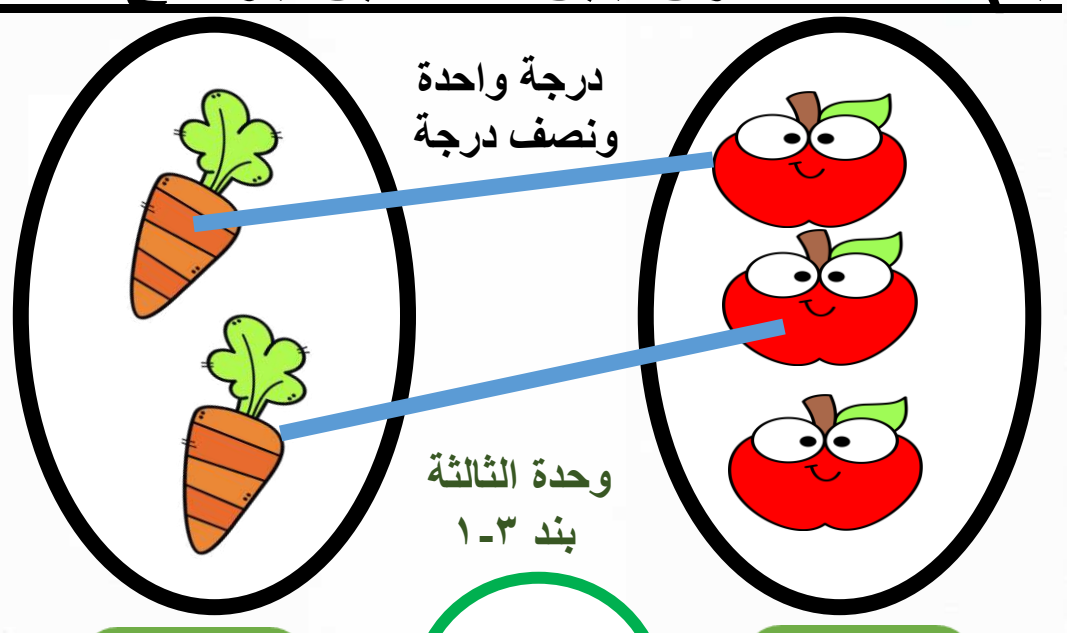

درجة واحدة ونصف درجة

٣ < ٢

وحدة الثالثة بند ٣-١

درجة واحدة ونصف درجة

٤ > ٥

وحدة الثالثة بند ٣-١

السؤال الثانى :

أ)أكمل :

٢

وحدة الثالثة بند ٣-٤

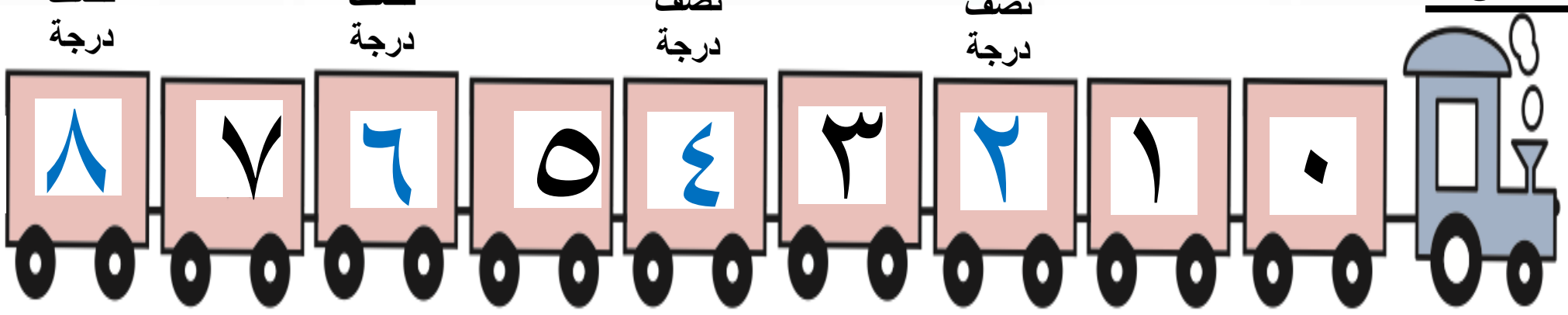

ب)استكمل رسم العناصر بحسب العدد الموضح رمزه :

٣

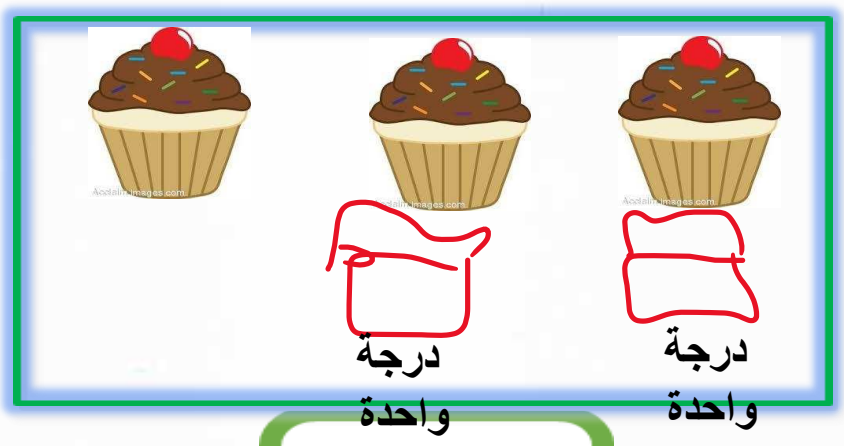

درجة واحدة — درجة واحدة

٥

وحدة الثانية بند ٢- ٨



درجة واحدة

٦

وحدة الثالثة بند ٣-٢

السؤال الثالث :

٢

أ) استخدم ● ● لإيجاد طرق مختلفة لتكوين العدد ٤.

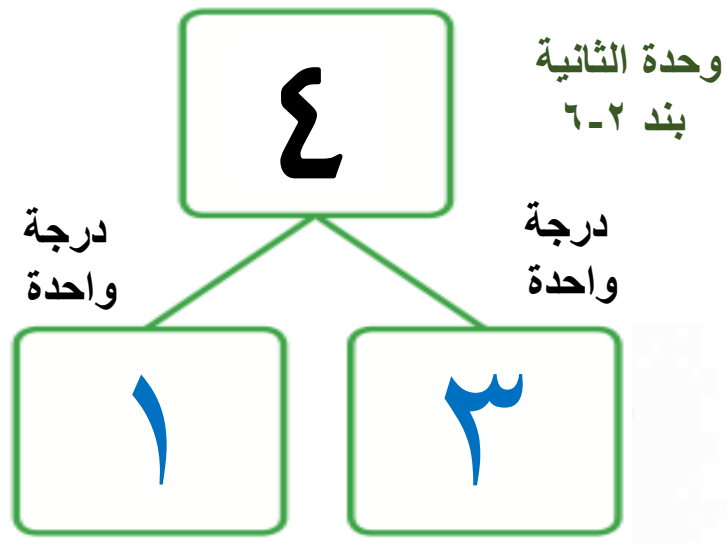

موقع المناهج الكويتية
almanahj.com/kw

ملاحظة مراعاة للحلول الأخرى

ب حوط رمز العدد المناسب .

٢

وحدة الثانية
بند ٢-٨



وحدة الثالثة
بند ٣-٥

٥ ٤ ٣ ٦ ٥ ٩

درجة واحدة

السؤال الرابع :

صل كل مجموعة برمز العدد المناسب .

٥

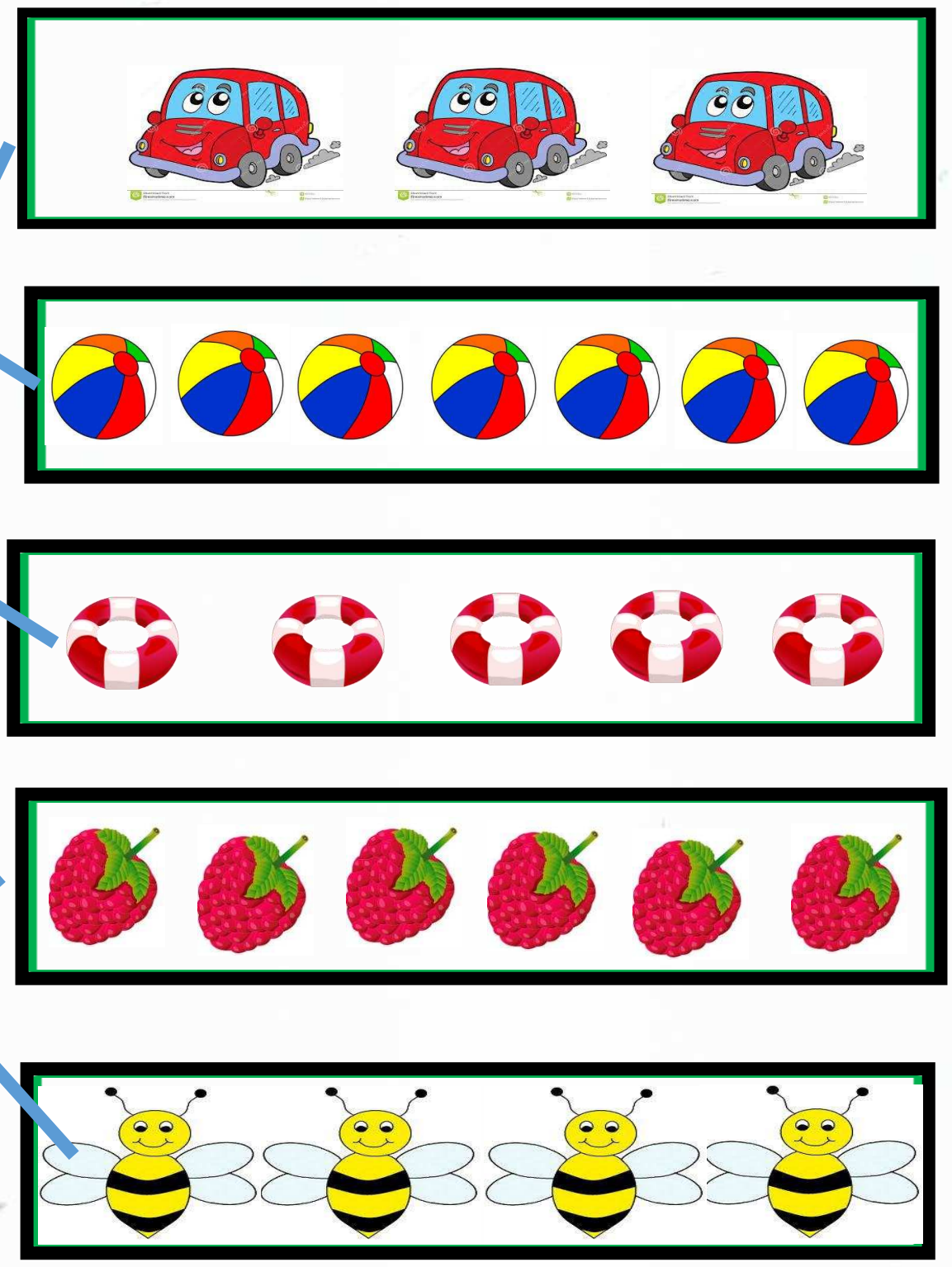

٧ — درجة واحدة — وحدة الثالثة بند ٣-٣

٥ — درجة واحدة — وحدة الثانية بند ٢-٨

٤ — درجة واحدة — وحدة الثانية بند ٢-٦

٣ — درجة واحدة — وحدة الثانية بند ٢-٤

٦ — درجة واحدة — وحدة الثالثة بند ٣-٢